Ejercicios Ilimitados

4.º grado

Área y perímetro en cuadrícula

Escribe el área (cuadritos de adentro) y el perímetro (contorno) de cada figura.

Nombre: _____ **Fecha:** _____ **Aciertos:** ___

1

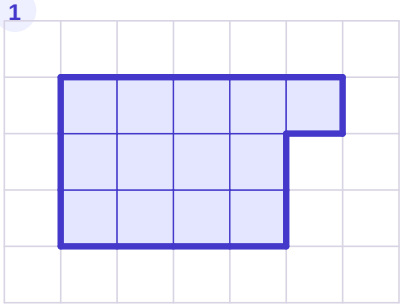

Área: _____

Perímetro: _____

2

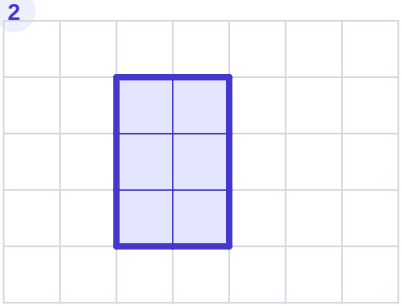

Área: _____

Perímetro: _____

3

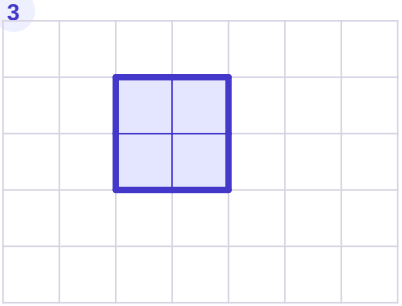

Área: _____

Perímetro: _____

4

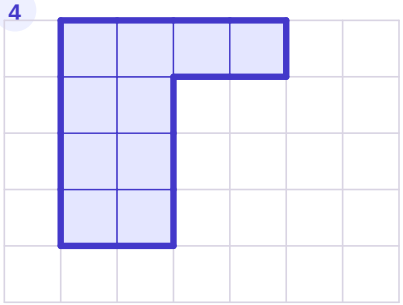

Área: _____

Perímetro: _____

5

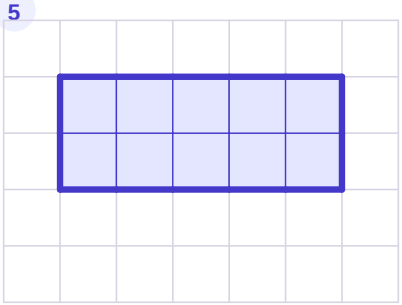

Área: _____

Perímetro: _____

6

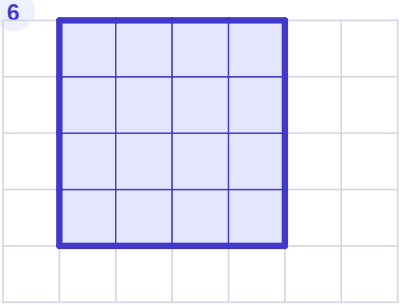

Área: _____

Perímetro: _____

7

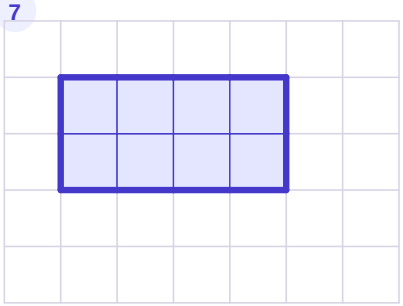

Área: _____

Perímetro: _____

8

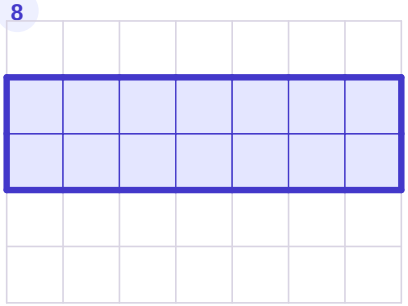

Área: _____

Perímetro: _____

9

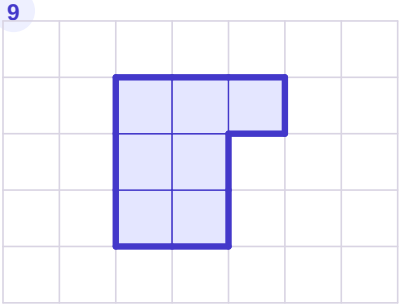

Área: _____

Perímetro: _____

Área y perímetro en cuadrícula

Respuestas de la hoja «Área y perímetro en cuadrícula».

1

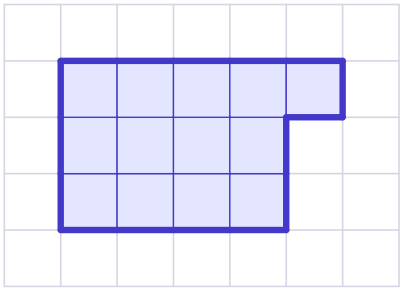

Área: **13 cm²**

Perímetro: **16 cm**

2

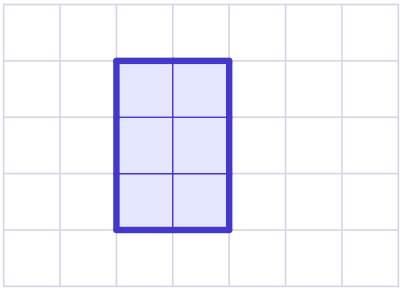

Área: **6 cm²**

Perímetro: **10 cm**

3

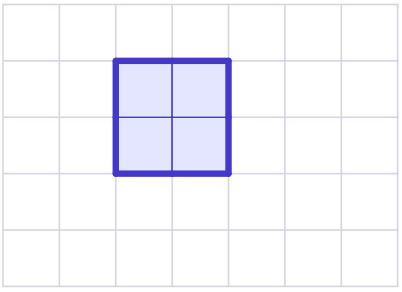

Área: **4 cm²**

Perímetro: **8 cm**

4

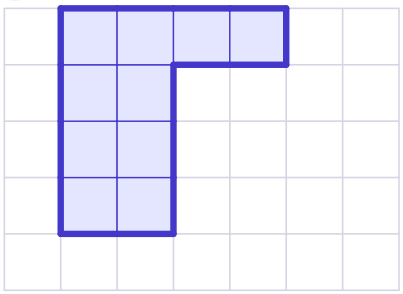

Área: **10 cm²**

Perímetro: **16 cm**

5

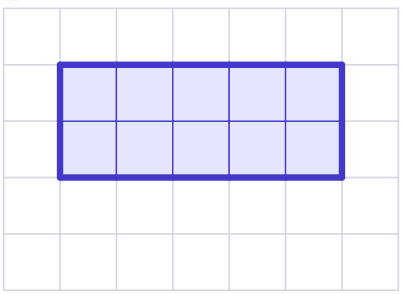

Área: **10 cm²**

Perímetro: **14 cm**

6

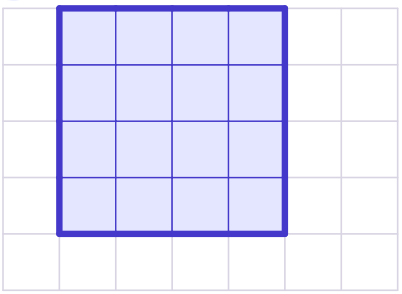

Área: **16 cm²**

Perímetro: **16 cm**

7

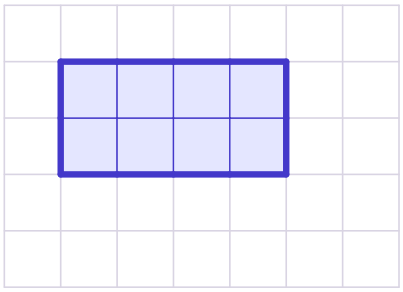

Área: **8 cm²**

Perímetro: **12 cm**

8

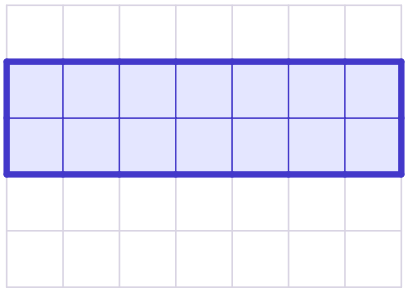

Área: **14 cm²**

Perímetro: **18 cm**

9

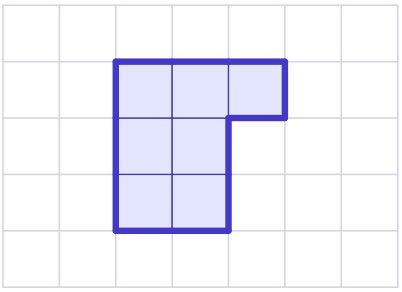

Área: **7 cm²**

Perímetro: **12 cm**